円と球（3）

名前

【１】＿にあてはまる数を答えなさい。

(1) 半径が 3cm5mm の円の直径は［　　］cm です。

(2) 直径が 12cm の円の半径は［　　］cm です。

(3) 直径が 9cm の球の半径は［　　］cm です。

【２】右の図のように、直径 16cm の円の直径の上に、同じ大きさの円が 2 つならんでいます。小さい円の半径は何 cm ですか。答えなさい。

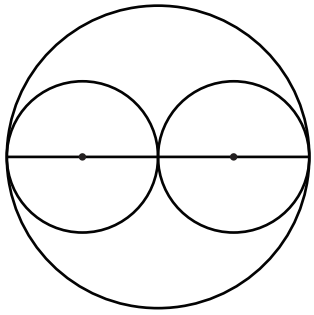

式

答え

【３】直径が 4cm のボールが 4 つあります。このボールを右の図のように、1 れつにぴったりと、つつの中にしまうためには、つつの長さは何 cm にすればいいですか。

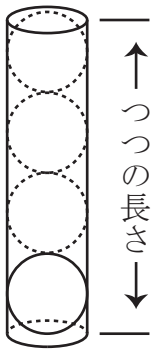

式

答え

【４】コンパスとじょうぎを使って、右の図のような図形をかきました。直線アイの長さは何 cm かもとめなさい。

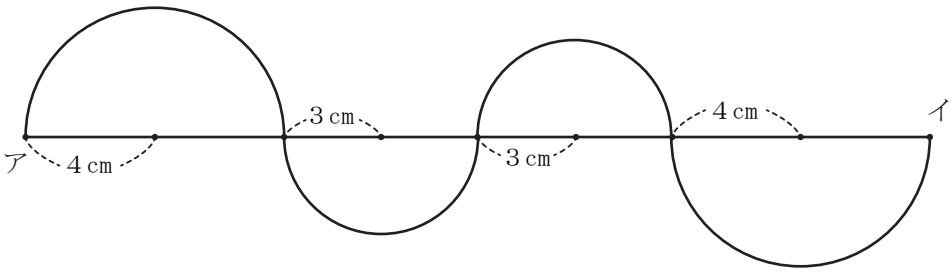

答え

このプリントはウェブサイトで無料ダウンロードできます。© 小学生の無料学習プリント【ちびむすドリル】http://happylilac.net/syogaku.html