4 何分かたった時こく

月　日　時　分～　時　分

名前 こたえ　点

1 4時40分から30分たった時こくは何時何分ですか。
□にあてはまる数をかきましょう。　30点(□1つ10)



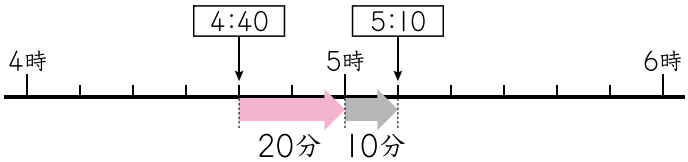

30分を20分と10分に分けて考えよう。

5時まで **20** 分。5時から **10** 分なので，5時 **10** 分です。

2 次(つぎ)の時こくは何時何分ですか。　20点(1つ10)

① 3時45分から20分たった時こく

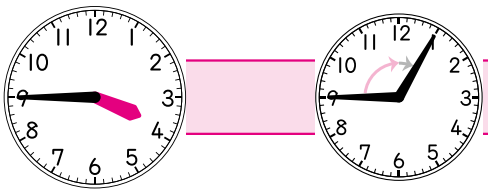

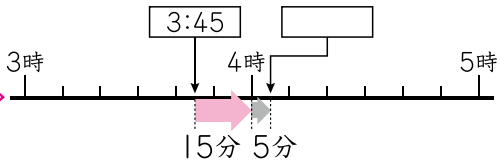

(**4時5分**)

4時まで15分。
20分は15分と5分だから…

② 10時30分から50分たった時こく

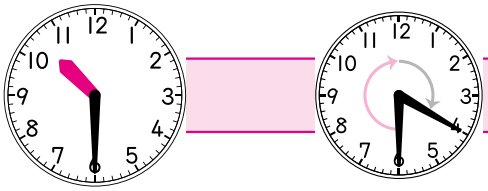

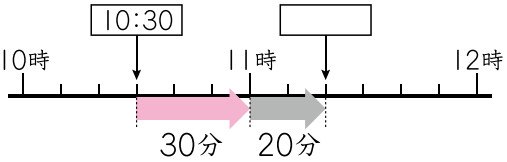

(**11時20分**)

新興出版社啓林館 & ちびむすドリル special コラボ
ドリルの王様
楽しく取り組めるから 長続き する！
各種検定試験、また2020年度からの 新学習指導要領 にも対応！
ドリルの王様 or 教科書ぴったりテスト 検索
ドリルの王様 公式サイトは こちら
予習・復習に便利な 教科書ぴったりテスト 公式サイトはこちら