分数の大きさ(3)

名前

☆　真分数には○仮分数には△帯分数には×を□の中に書きましょう。

□ $\frac{11}{6}$　□ $3\frac{2}{5}$　□ $\frac{6}{9}$　□ $\frac{18}{5}$　□ $1\frac{2}{5}$　□ $\frac{5}{8}$

□ $\frac{18}{18}$　□ $\frac{4}{5}$　□ $\frac{9}{8}$　□ $2\frac{4}{6}$　□ $\frac{2}{5}$　□ $1\frac{3}{4}$

☆　それぞれ仮分数と帯分数、ふたつの表し方で表しましょう。

①

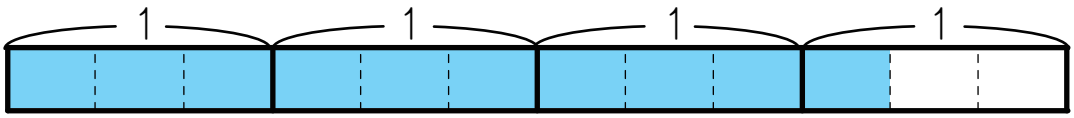

答え　仮分数　$\frac{10}{3}$　帯分数　$3\frac{1}{3}$

②

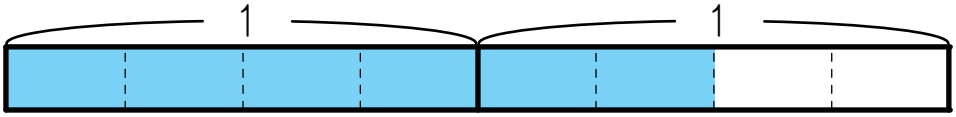

答え　仮分数　$\frac{6}{4}$　帯分数　$1\frac{2}{4}$

③

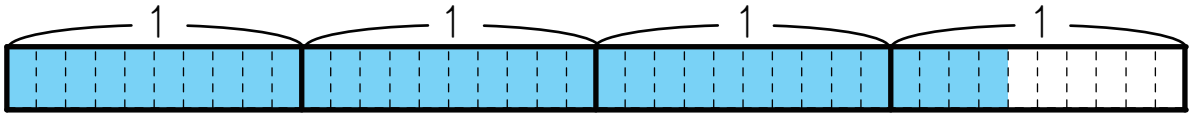

答え　仮分数　$\frac{34}{10}$　帯分数　$3\frac{4}{10}$

☆　数直線の上には真分数か仮分数、下には帯分数を書きましょう。

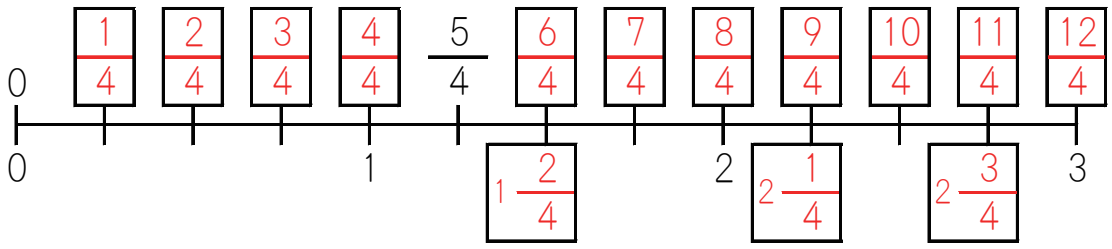

このプリントはウェブサイトで無料ダウンロードできます。(C) 小学生の学習教材【ちびむすドリル】 http://happylilac.net/syogaku.html