小３理科　物質・エネルギー

ものと重さ (4)

たしかめ

名前

【１】（　）に当てはまることばやすうじを書くか、えらんで〇でかこみなさい。

(1) みかんの重さをはかりでしらべると、右の図のような目もりをさしました。みかんの重さは、（　　g ）です。

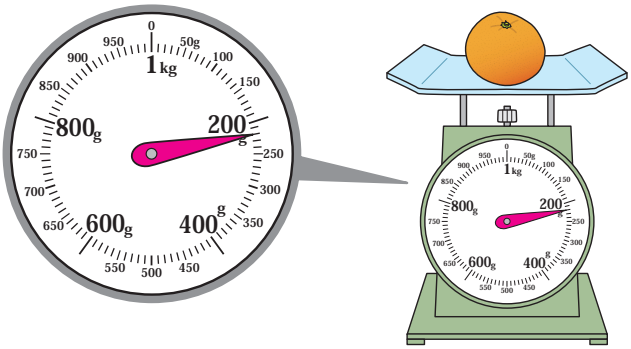

(2) 下のはかりの目もりは、それぞれ何 g をさしていますか。

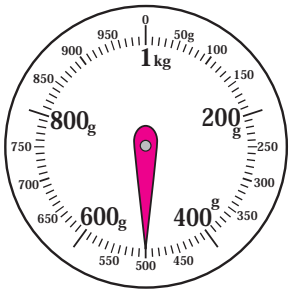

（①　　g ）

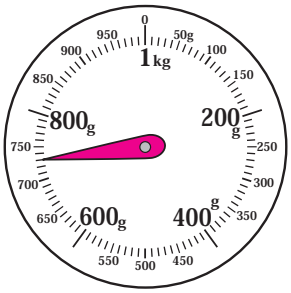

（②　　g ）



（③　　g ）

(3) 四角いねんどを丸い形にかえたとき、ねんどの重さは、（重くなります ・ かわりません）。

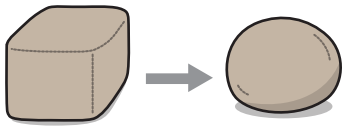

(4) アルミホイルはくを小さくつぶしたとき、その重さは、（軽くなります ・ かわりません）。



(5) 大さじ１ぱいのすなとさ鉄の重さは（同じです ・ ちがいます）。

(5) ものの重さをくらべたいときは、（　　）をそろえて重さをはかる必要があります。

【２】てんびんを使って、同じ体積の鉄、ガラス、木の重さをくらべると、右の図のようになりました。



(1) 木とガラスでは、どちらのほうが重いですか。

答え

(2) 鉄とガラスでは、どちらのほうが重いですか。

答え



(3) 木と鉄では、どちらのほうが重いですか。

答え

このプリントはウェブサイトで無料ダウンロードできます。© 無料学習プリント【ちびむすドリル】http://happylilac.net/syogaku.html