月　　日

ベーシック

熱帯地域の生活

名前

1 次の地図を見て、あとの問いに答えなさい。

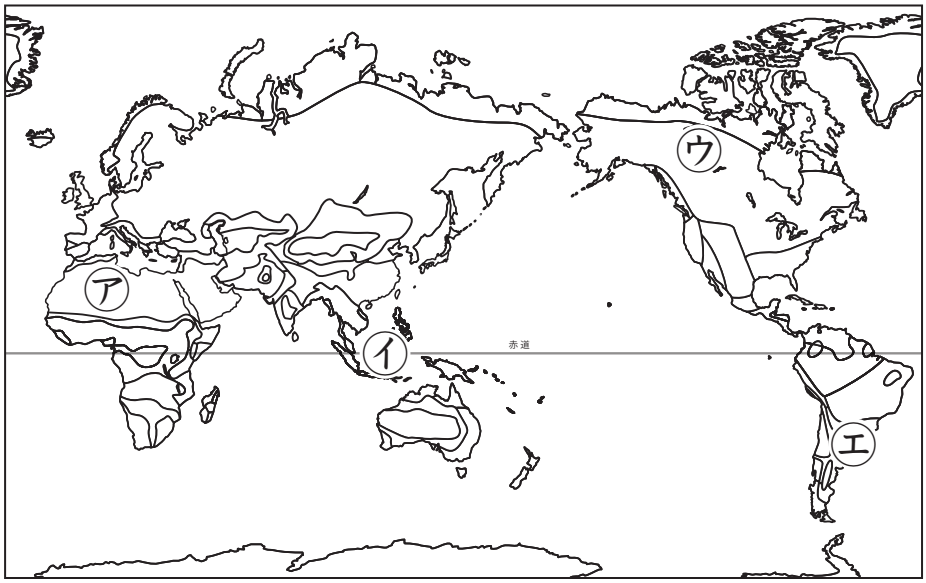

(1)	㋑
(2)	サバナ気候
(3)	スコール

（1）熱帯に当てはまる地域を、上の地図中の㋐～㋓の中から1つ選び、記号で答えなさい。

（2）熱帯のうち、一年が雨季と乾季に分かれる気候区は何ですか。

（3）熱帯雨林気候で毎日のように降る、一時的な強い風をともなう大つぶの雨を何と言いますか。

2 次の図[あ]、[い]を見て、以下の問いに答えなさい。

[あ]



[い]



(1)	タロいも
	キャッサバ ※ほか、ヤムイモも可
(2)	家の中に 湿気 が、 こもらない ように にするため。
(3)	イ

（1）[あ]は、熱帯雨林気候のフィジーの伝統料理の調理風景です。主食であり、この料理でも使われる材料はおもに何ですか。2つ答えなさい。

（2）[い]は、熱帯雨林気候で見られる住居です。この住居は床（ゆか）が高く造られていますが、それはなぜですか。
解答らんに合うように答えなさい。

（3）熱帯雨林気候に住む人々は、どのような素材の衣服を身につけますか。最も適当なものを、次のア～エの中から選び、記号で答えなさい。

ア．動物の毛皮　　イ．風通しの良い素材
ウ．羊毛から作った布　　エ．網目（あみめ）が細かく厚手の素材

© ちびむすドリル　この学習プリントは、ちびむすドリル 検索 で無料ダウンロードできます。

名前

ハイレベル

3 次の文章を読んで、あとの問いに答えなさい。

熱帯雨林気候の地域では、雨が多く、気温が高いため、作物が一年中育ちます。例えばフィジーでは、（ ① ）、②ココやしなどの大規模な畑が広がっています。これらは重要な輸出品となります。

熱帯の地域では、観光を目的とした開発を進めている国もあります。こうした開発は[あ]にしますが、一方で、観光地の開発や農地の拡大などによって（ ③ ）や（ ④ ）などが減少しており、熱帯林の広がる地域に暮らす人々が伝統的な生活を続けることを難しくしています。

（1）文中の空らん①に当てはまる農産物は、砂糖の原料になるものです。これは何ですか。

（2）下線部②から採れるコプラは、何の原料として輸出されますか。最も適当なものを、次の中から1つ選び、記号で答えなさい。

ア．香辛料や調味料　　イ．マーガリンやせっけん
ウ．ジュースなどの飲料　　エ．衣類を作るせんい

（3）下の図は、熱帯の海岸などに育つ文中③の樹木と、温かく浅い海にできる④の地形の景色を表しています。それぞれ何か答えなさい。



（4）空らん[あ]に文章を補い、文を完成させなさい。ただし、「外国人観光客」という語を必ず用いること。

(1)	さとうきび	
(2)	イ	
(3)	③	マングローブ
	④	さんご礁
(4)	例）外国人観光客を増やし、その国の経済を豊か ※空らん［あ］が含まれる一文で、観光を目的とした開発の良い点と悪い点を説明する。空らん［あ］は「良い点」を説明する部分なので、「豊かになる」という内容を入れる必要がある。	

4 次の雨温図を見て、以下の問いに答えなさい。

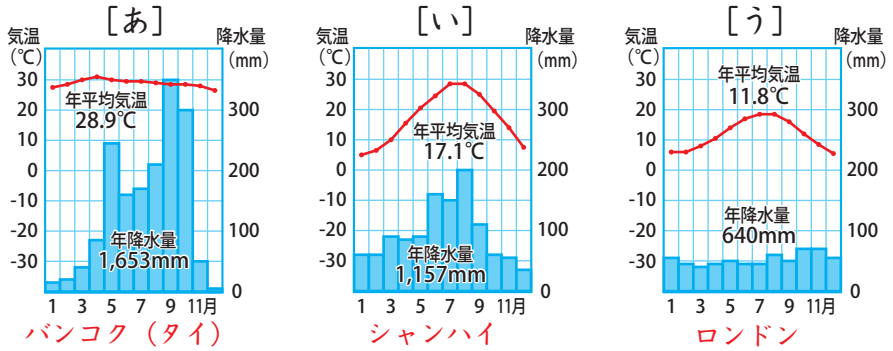

（1）雨温図[あ]〜[う]のうち、サバナ気候を示すものはどれですか。1つ選び、記号で答えなさい。

（2）熱帯雨林気候の特徴（とくちょう）について、「気温」と「降水量」に注目して説明しなさい。

(1)	あ
(2)	例）年間を通して気温が高く一定で、降水量も多く一定である。

© ちびむすドリル　この学習プリントは、ちびむすドリル 検索 で無料ダウンロードできます。