名 月 日

1年生の図形（2）

前

図形　対象：1年生～　ねらい：1年生で学習する、「ながさ」「ひろさ」「かたち」のたしかめ

点

学習プリント無料ダウンロード
ちびむすドリル
© ちびむすドリル

1 どちらが　ひろいでしょうか。きごうで　こたえましょう。1つ25てん（50）

①

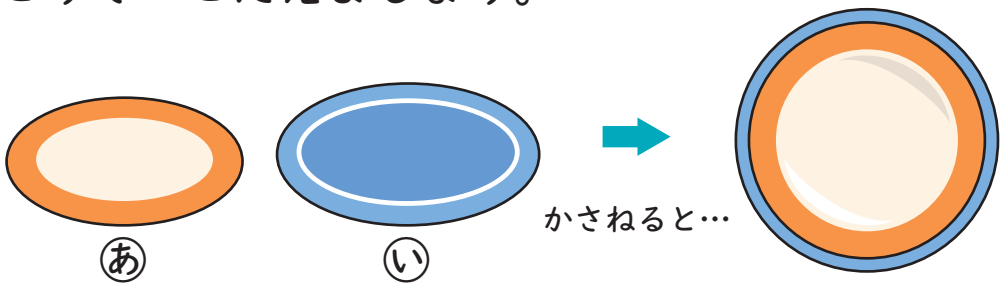

こたえ　い

②

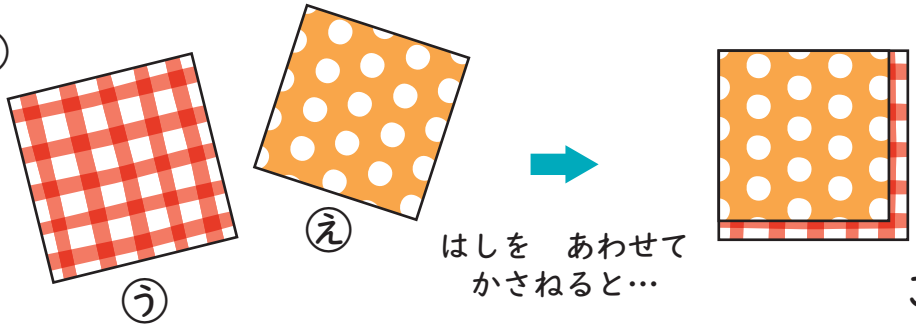

こたえ　う

2 □に　いろを　ぬって　か、き、くの　かたちを　つくりました。

1つ25てん（50）

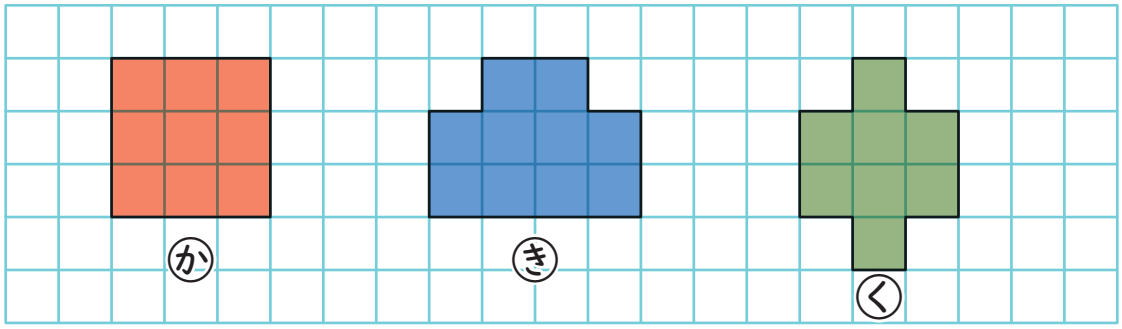

① ひろい　じゅんに　きごうを　かきましょう。

（ き ）→（ か ）→（ く ）

ひろい　せまい

② きと　くでは、どちらが　□の　いくつぶん　ひろいでしょうか。

こたえ　き　が　□の　2　つぶん　ひろい。