名前

学習日　月　日

2 角

まずは，授業動画をチェック！

得点　／100点

❶ 次の角の大きさは何度ですか。分度器を使ってはかりなさい。（各５点）

（1）

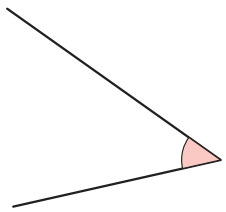

（　　）

（2）

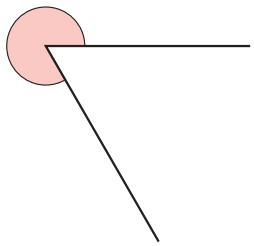

（　　）

❷ 分度器を使って，次の大きさの角をかきなさい。（各５点）

（1）123°

（2）320°

❸ 分度器とじょうぎを使って，次の三角形をかきなさい。（15点）

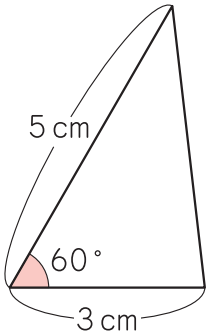

算数

次のプリントに続く ➡

Z会 × ちびむすドリル
考える楽しさを体験しよう！
1年間の総復習でスムーズに進級を

Z会の本

くわしくはこちら！

4 次の図のように，１組の三角じょうぎを組み合わせて，角をつくりました。㋐の角の大きさを分度器を使わないで求めなさい。（15点）

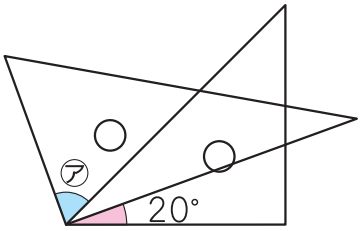

（　　）

5 次の㋐～㋒の角の大きさは，それぞれ何度ですか。分度器を使わないで求めなさい。（各10点）

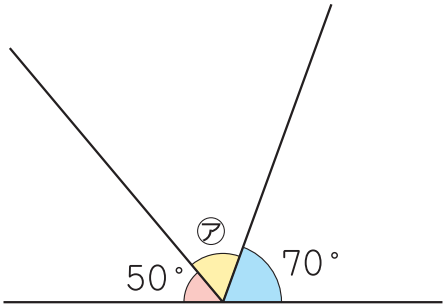

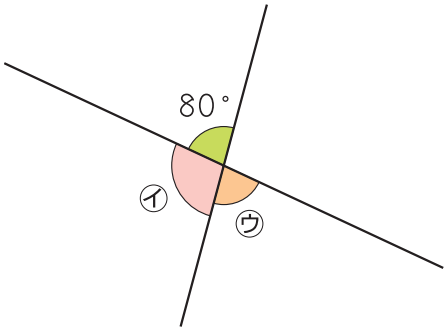

㋐（　　）　㋑（　　）　㋒（　　）

6 下の時計で，長いはりと短いはりの間の角の大きさは何度ですか。分度器を使わないで求めなさい。（20点）

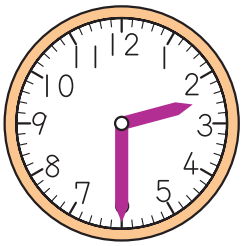

（　　）

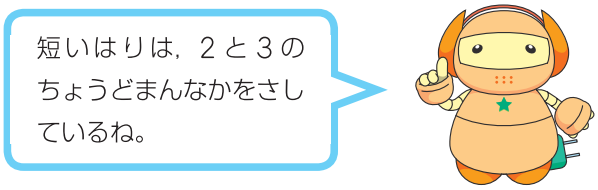

算数

Z会 × ちびむすドリル
考える楽しさを体験しよう！
1年間の総復習でスムーズに進級を

Z会の本
くわしくはこちら！