1 わり算

月　日　時　分～　時　分

名前　　点

1 36÷9の式になるお話をつくりました。□にあてはまる数をかきましょう。　8点(1つ2)

(1)　キャンディが36こあります。

①□人で同じ数ずつ分けると，1人分は②□こになります。

(2)　キャンディが36こあります。

1人に③□こずつ分けると，④□人に分けられます。

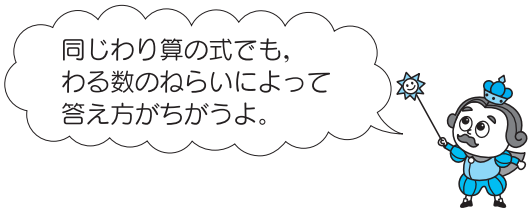

2 28本のえんぴつを，7人に同じ数ずつに分けると，1人分は何本になるでしょう。また，答えをみつけるには，何のだんの九九をつかうでしょう。　12点(式4・答え4)

式（　　）

答え（　　），（　　）のだんの九九

3 子どもが32人います。4人ずつのグループに分けると，何グループになるでしょう。　8点(式4・答え4)

式（　　）　答え（　　）

4 48ページの童話の本があります。1日に6ページずつ読むと，読みおわるのに何日かかるでしょう。　8点(式4・答え4)

式（　　）　答え（　　）

5 1ふくろに6こはいっているクッキーを，3ふくろ買ってきました。このクッキーを同じ数ずつ2ふくろにいれると，1ふくろは何こになるでしょう。　8点(式4・答え4)

式（　　）　答え（　　）

ドリルの王様大特集
苦手を克服！集中特訓ドリルに挑戦しよう！
新興出版社啓林館 ちびむすドリル コラボ企画
ちびむすドリル×新興出版社
新興出版社 モニプラ　or　ドリルの王様　検索
新興出版社の色々な商品を無料で試せるお得なモニターについてはこちら
ドリルの王様公式サイトはこちら

2 何倍

月　日　時　分～　時　分

名前　　点

1 水そうにメダカが16ひき，金魚が8ひきいます。メダカの数は，金魚の数の何倍(なんばい)でしょう。　8点(式4・答え4)

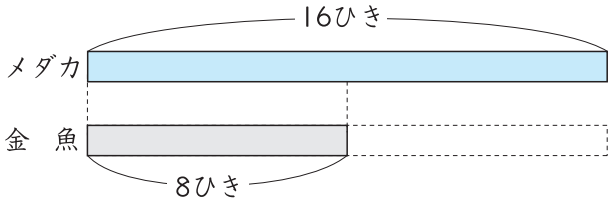

式(しき)（16÷8＝　）　答え（2倍）

2 花だんに白い花が6本，赤い花が18本さいています。赤い花の数は，白い花の数の何倍でしょう。　8点(式4・答え4)

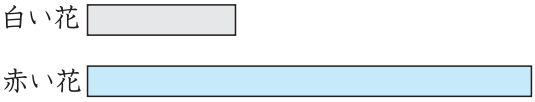

式（　）　答え（　）

3 のりまきが24こ，おにぎりが6こあります。のりまきの数はおにぎりの数の何倍でしょう。　8点(式4・答え4)

式（　）　答え（　）

4 あやかさんはおはじきを25こもっています。妹のゆうかさんは5こもっています。あやかさんのもっているおはじきの数は，ゆうかさんの数の何倍でしょう。　8点(式4・答え4)

式（　）　答え（　）

5 青いリボンは64 cm，赤いリボンは8 cmです。青いリボンの長さは，赤いリボンの長さの何倍でしょう。　8点(式4・答え4)

式（　）　答え（　）

ドリルの王様大特集
苦手を克服！集中特訓ドリルに挑戦しよう！
新興出版社啓林館 ちびむすドリル コラボ企画
ちびむすドリル×新興出版社
新興出版社 モニプラ　or　ドリルの王様　検索
新興出版社の色々な商品を無料で試せるお得なモニターについてはこちら
ドリルの王様公式サイトはこちら

3 たし算とひき算の筆算

月　日　時　分～　時　分

名前　　点

1 みさきさんはスーパーで買い物をして，355円はらいました。さいふには468円のこっています。
はじめにいくらもっていたのでしょう。　8点(式4・答え4)

式（　　）

答え（　　）

	3	5	5
＋	4	6	8
		2	3

2 青色のおり紙が276まい，赤色のおり紙が338まいあります。
おり紙はあわせて何まいでしょう。　8点(式4・答え4)

式（　　）

答え（　　）

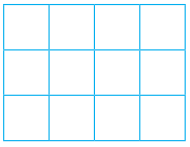

3 ゆうたさんの学校の小学生の数は，男の子が198人，女の子が207人です。小学生はみんなで何人いるでしょう。　10点(式5・答え5)

式（　　）

答え（　　）

4 260ページある本を，184ページまで読みました。
あと何ページのこっているでしょう。　8点(式4・答え4)

式（　　）

答え（　　）

	2	6	0
−	1	8	4
		7	6



5 ともやさんの学校であきかんを463こ集めました。そのうち，186こがスチールかんで，のこりがアルミかんでした。　10点(式5・答え5)
アルミかんは何こあったでしょう。

式（　　）

答え（　　）

ドリルの王様大特集
苦手を克服！集中特訓ドリルに挑戦しよう！
新興出版社啓林館 ちびむすドリル コラボ企画
ちびむすドリル×新興出版社
新興出版社 モニプラ　or　ドリルの王様　検索
新興出版社の色々な商品を無料で試せるお得なモニターについてはこちら
ドリルの王様公式サイトはこちら

4 かけ算の筆算

月　日　時　分～　時　分

名前　　点

1 1まい16円の画用紙（がようし）を6まい買います。
だい金はいくらになるでしょう。

8点(式4・答え4)

	1	6
×	3	6
		6

式（しき）（ 16×6 ）

10×6＝60
6×6＝36 →□

答え（　　）



2 えんぴつ1ダースは12本です。
4ダースでは何本になるでしょう。

8点(式4・答え4)

式（　　）

←10×4
2×4

答え（　　）

3 1本が18 dLはいるびんがあります。このびんが7本では，水が何L何dLはいるでしょう。

10点(式5・答え5)

式（　　）

答え（　　）



4 1こ85円のりんごを5こ買います。
だい金はいくらになるでしょう。

8点(式4・答え4)

式（　　）

答え（　　）

		8	5
	×		5

5 1辺が25 cmの正方形（せいほうけい）のまわりの長さは何cmでしょう。

10点(式5・答え5)

式（　　）　　答え（　　）

6 1mが36円のリボンを5m買います。だい金はいくらでしょう。

8点(式4・答え4)

式（　　）　　答え（　　）

ドリルの王様大特集
苦手を克服！ 集中特訓ドリルに挑戦しよう！
新興出版社啓林館 ちびむすドリル コラボ企画 ちびむすドリル×
SHINKO 新興出版社
新興出版社 モニプラ or ドリルの王様 検索
新興出版社の色々な商品を無料で試せるお得なモニターについてはこちら
ドリルの王様公式サイトはこちら

5 あまりを考えて

月　日　時　分～　時　分

名前　　点

1 4人がすわれる長いすがあります。30人の子どもがみんなすわるには，長いすはいくついるでしょう。　8点(式4・答え4)

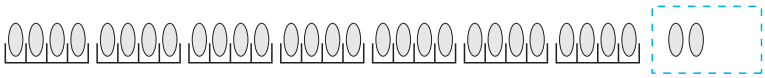

式（30÷4＝7あまり2）

7こ＋あまりの分も1こ



答え（　　）

2 ボールが32こあります。1はこに6こずつ入れると，はこはいくついるでしょう。　8点(式4・答え4)

式（　　）　答え（　　）

3 りんごが48こあります。1回に5こずつかごに入れてはこぶと，何回ではこびおわるでしょう。　8点(式4・答え4)

式（　　）　答え（　　）

4 たまごが20こあります。1日に3こずつ食べると，何日で食べおわるでしょう。　8点(式4・答え4)

式（　　）　答え（　　）

5 右の図のようなうちがわの長さが52 cmの本立てに，あつさが6 cmの本を立てています。

本は何さつ立てられるでしょう。　8点（式4・答え4）

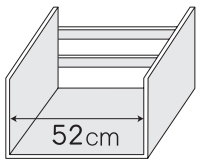

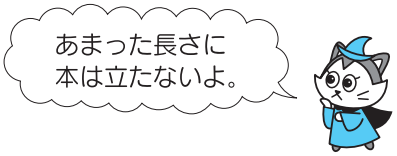

式（　　）

答え（　　）

ドリルの王様大特集
苦手を克服！集中特訓ドリルに挑戦しよう！
新興出版社啓林館 ちびむすドリル コラボ企画
ちびむすドリル×新興出版社
新興出版社 モニプラ　or　ドリルの王様　検索
新興出版社の色々な商品を無料で試せるお得なモニターについてはこちら
ドリルの王様公式サイトはこちら

6 小数のたし算，ひき算

月　日　時　分～　時　分

名前　　点

1 テープを，くるみさんは 4.5 m，ななみさんは 3.8 m つかいました。
2 人がつかったテープの長さは，何 m でしょう。　8点(式4・答え4)

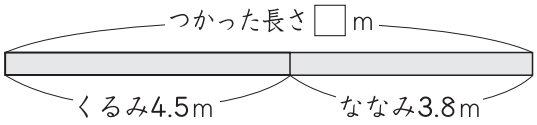

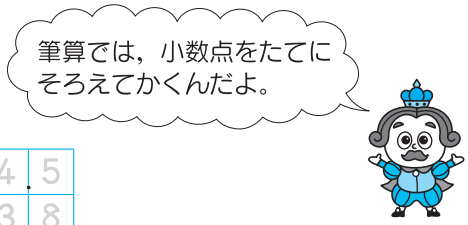

式（しき）（　　）

答え（　　）

	4	5
+	3	8

2 重さが 1.5 kg のはこに，りんご 5.6 kg をつめました。
重さは何 kg になるでしょう。　8点(式4・答え4)

式（　　）

答え（　　）

3 1.8 L 入りのペットボトルのジュースを 2 本買いました。
あわせると何 L になるでしょう。　10点(式5・答え5)

式（　　）　答え（　　）

4 りんごをかごに入れて重さをはかったら，6.4 kg ありました。かごの重さは 1.5 kg です。りんごは何 kg あるでしょう。　8点(式4・答え4)

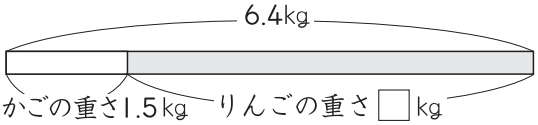

式（　　）　答え（　　）

	6	4
−	1	5

5 カードのたてと横の長さをはかったら，たて 7.4 cm，横 5.8 cm でした。
たての長さは，横より何 cm 長いでしょう。　8点(式4・答え4)

式（　　）　答え（　　）

ドリルの王様大特集
苦手を克服！集中特訓ドリルに挑戦しよう！
新興出版社啓林館 ちびむすドリル コラボ企画
ちびむすドリル × 新興出版社
新興出版社 モニプラ　or　ドリルの王様　検索
新興出版社の色々な商品を無料で試せるお得なモニターについてはこちら
ドリルの王様公式サイトはこちら

7 分数

月　日　時　分～　時　分

名前　　点

1 1 m のテープを 5 等分します。分けた 3 つ分の長さは何 m でしょう。 10点

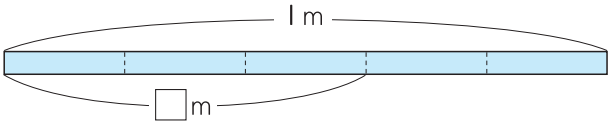

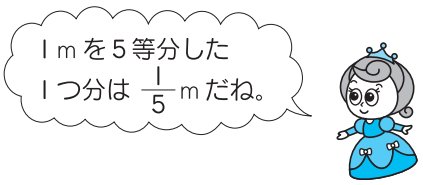

（　　）

2 $\frac{4}{7}$ m のテープは，$\frac{1}{7}$ m のテープの何本分でしょう。 10点

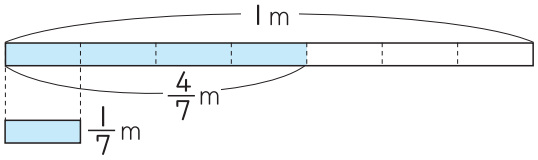

（　　）

3 $\frac{1}{8}$ m のテープを何本あわせると，$\frac{5}{8}$ m の長さになるでしょう。 10点

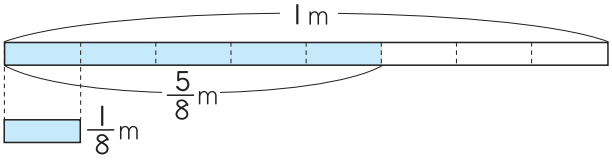

（　　）

4 1 L の水を，$\frac{1}{10}$ L 入りのコップに等しく分けると，コップ何こ分になるでしょう。 10点

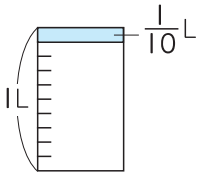

（　　）

5 水 $\frac{3}{10}$ L を小数で表すと，何 L となるでしょう。 10点

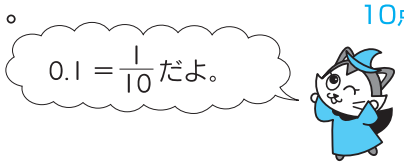

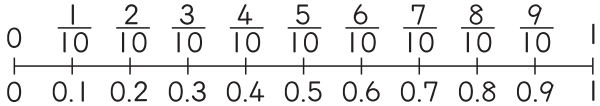

（　　）

ドリルの王様大特集

苦手を克服！ 集中特訓ドリルに挑戦しよう！

新興出版社啓林館 × ちびむすドリル コラボ企画　ちびむすドリル × 新興出版社

新興出版社 モニプラ　or　ドリルの王様　検索

新興出版社の色々な商品を無料で試せるお得なモニターについてはこちら

ドリルの王様公式サイトはこちら

8 かくれた数はいくつ

月　日　時　分～　時　分

名前　　点

1 公園であそんでいたら，男の子が４人，女の子が５人帰りましたが，まだ８人があそんでいます。はじめ，公園で何人があそんでいたのでしょう。

8点(1つ2・答え4)

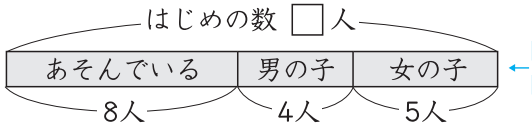

□－（４＋５）＝８
□＝８＋（４＋５）

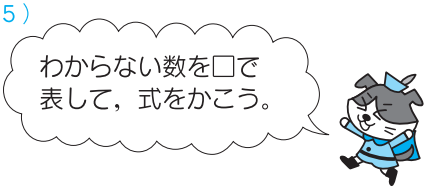

あそんでいる人数　帰った人数　はじめの人数

式　① 8 ＋４＋５＝ ②

答え（　　）

2 テープが何 cm かありました。15 cm のリボンを２本つくったら，まだ 50 cm のこっています。はじめにテープは何 cm あったのでしょう。

10点(式5・答え5)

式（　　）　答え（　　）

3 みさきさんはスーパーで 350 円のりんごと 280 円のバナナを買いました。まださいふには 370 円のこっています。

はじめ，さいふには何円あったのでしょう。

10点(式5・答え5)

式（　　）　答え（　　）

4 ゆうかさんは色紙を 45 まいもっていました。おりづるをおるのに 14 まいつかい，また，何まいかを花のわにつかったので，のこりが 15 まいになりました。花のわをつくるのに，何まいつかったでしょう。

10点(式5・答え5)

式（　　）　答え（　　）

5 たくまさんはシールを 32 まいもっていました。15 まいもらって，何まいかを友だちとこうかんしたら，のこりが 29 まいになりました。

何まいこうかんしたのでしょう。

10点(式5・答え5)

式（　　）　答え（　　）

ドリルの王様大特集

苦手を克服！ 集中特訓ドリルに挑戦しよう！

新興出版社啓林館 × ちびむすドリル コラボ企画　ちびむすドリル × 新興出版社

新興出版社 モニプラ　or　ドリルの王様　検索

新興出版社の色々な商品を無料で試せるお得なモニターについてはこちら

ドリルの王様公式サイトはこちら

ドリルの王様 大特集 得点表

3ねんの 文章題

ドリルにチャレンジして、点数を記録しよう。
1回目で全問正解できなくても2回、3回と、くり返しちょう戦しよう！
満点が取れたら、 に色をぬってね。

名前

	1回目	2回目	3回目	めざせ満点!!
1 わり算	点	点	点	
2 倍数	点	点	点	
3 たし算と ひき算の 筆算	点	点	点	
4 かけ算の ひっ算	点	点	点	
5 あまりを 考えて	点	点	点	
6 小数のたし算，ひき算	点	点	点	
7 分数	点	点	点	
8 かくれた数は いくつ	点	点	点	

ドリルの王様 大特集
苦手を克服！ 集中特訓ドリルに挑戦しよう！
新興出版社啓林館 × ちびむすドリル コラボ企画
ちびむすドリル × 新興出版社

新興出版社 モニプラ or ドリルの王様 検索
新興出版社の色々な商品を無料で試せるお得なモニターについてはこちら
ドリルの王様公式サイトはこちら