1-1 まとめのテスト

月　日　もくひょう時間 15 分

名前 こたえ　点

1 絵を 見て，数を かきましょう。

12点(1つ4)

① 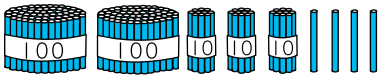

(234)本

② 

(401)本

③ 

(2143)まい

2 数字で かきましょう。

12点(1つ4)

① 四百三十一　(431)

② 八百七　(807)

③ 二千三百　(2300)

3 つぎの 数を かきましょう。

20点(1つ4)

① 100 を 6こ，10 を 2こ あわせた 数　(620)

② 100 を 9こ，1 を 5こ あわせた 数　(905)

③ 100 を 10こ あつめた 数　(1000)

④ 1000 を 3こ，100 を 2こ，10 を 6こ，1 を 7こ あわせた 数　(3267)

⑤ 1000 を 10こ あつめた 数　(10000)

新興出版社啓林館 & ちびむすドリル Special コラボ
ドリルの王様
楽しく取り組めるから 長続き する！
各種検定試験、また 2020年度からの 新学習指導要領 にも対応！
ドリルの王様 or 教科書ぴったりテスト 検索
ドリルの王様 公式サイトは こちら
予習・復習に便利な 教科書ぴったりテスト 公式サイトはこちら

1-2 まとめのテスト

なまえ　こたえ

4 □に　あてはまる　数を　かきましょう。　28点(1つ4)

① 3402の　千のくらいは　**3**，百のくらいは　**4**，十のくらいは　**0**，一のくらいは　**2**　です。

② 10を　34こ　あつめた　数は　**340**　です。

③ 760は　10を　**76**　こ　あつめた　数です。

④ 5900は　100を　**59**　こ　あつめた　数です。

5 □に　あてはまる　数を　かきましょう。　20点(1つ4)

①

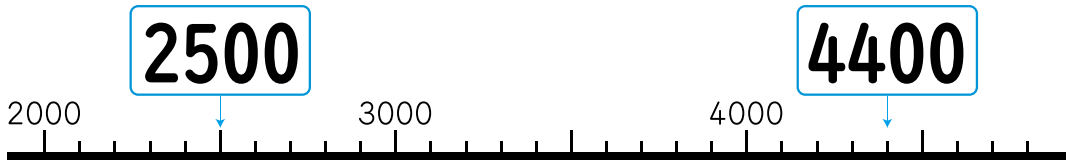

②

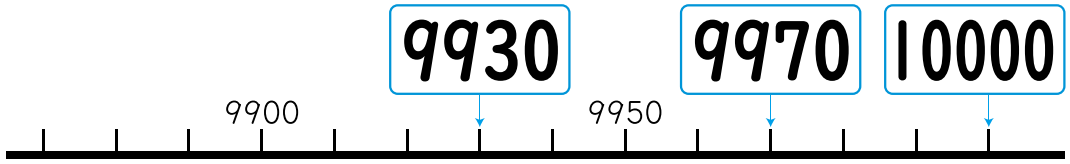

6 大きい　数から　じゅんに　かきましょう。　4点

5670　5760　5067　5076　5780

（ **5780　5760　5670　5076　5067** ）

7 色を　ぬった　ところの　長さが　もとの　長さの　$\frac{1}{3}$に　なって　いるのは　どれでしょう。　4点



（ い ）

新興出版社啓林館 & ちびむすドリル special コラボ
ドリルの王様
楽しく取り組めるから 長続き する！
各種検定試験、また2020年度からの 新学習指導要領 にも対応！
ドリルの王様 or 教科書ぴったりテスト 検索
ドリルの王様 公式サイトは こちら
予習・復習に便利な 教科書ぴったりテスト 公式サイトはこちら

2-1 まとめのテスト

月　日　もくひょう時間 15分

名前 こたえ　点

1 三角形や　四角形を　ぜんぶ　みつけて，それぞれ　きごうで答えましょう。　10点(1つ5)

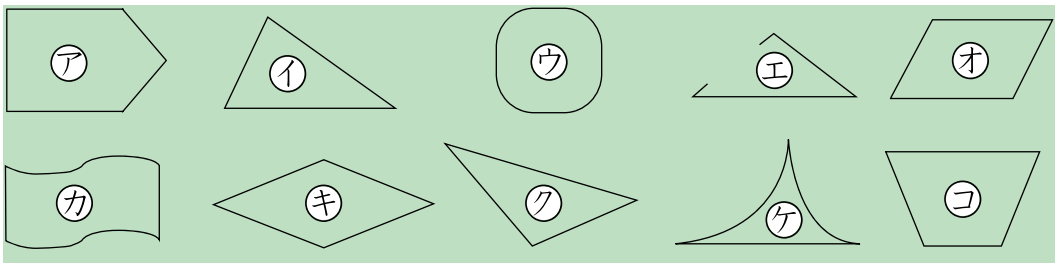

三角形（イ　ク）　四角形（オ　キ　コ）

2 長方形，正方形，直角三角形は　どれでしょう。　15点(1つ5)

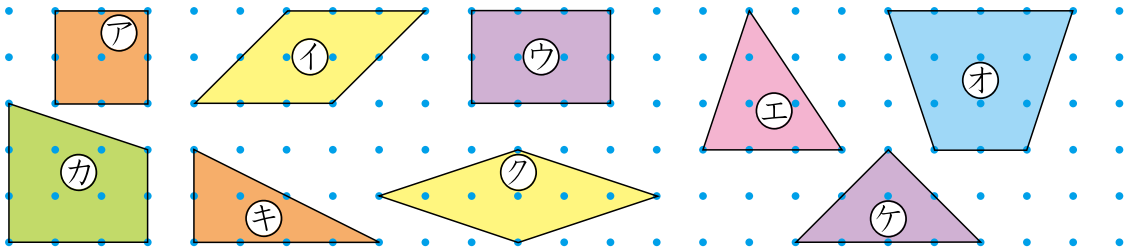

長方形（ウ）　正方形（ア）　直角三角形（キ　ケ）

3 つぎの　形を　1つずつ　かきましょう。　15点(1つ5)

① 長方形

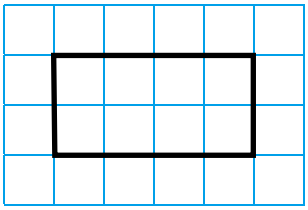

れい

② 正方形

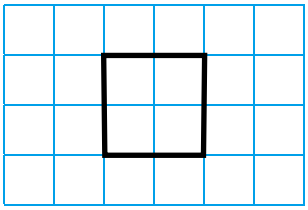

れい

③ 直角三角形

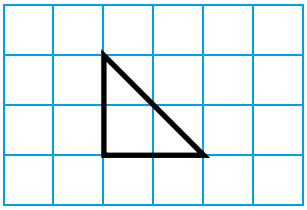

れい

新興出版社啓林館 & ちびむすドリル special コラボ
ドリルの王様
楽しく取り組めるから 長続き する！
各種検定試験、また2020年度からの 新学習指導要領 にも対応！
ドリルの王様 or 教科書ぴったりテスト 検索
ドリルの王様 公式サイトは こちら
予習・復習に便利な 教科書ぴったりテスト 公式サイトはこちら

2-2 まとめのテスト

なまえ　こたえ

4 右の はこの 形を 見て 答えましょう。　24点(1つ8)

① 面の 数は いくつでしょう。　(6こ)

② 辺の 数は いくつでしょう。　(12本)

③ ちょう点の 数は いくつでしょう。　(8こ)

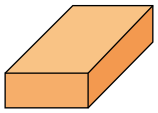

5 下の はこの 形を 見て 答えましょう。　30点(1つ10)

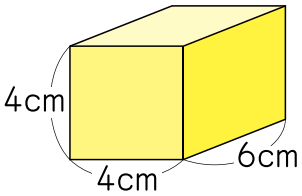

① 長方形の 面の 数は いくつでしょう。　(4こ)

② 正方形の 面の 数は いくつでしょう。　(2こ)

③ 4cmの 辺の 数は いくつでしょう。　(8本)

6 つぎの ひごと ねん土玉を ぜんぶ つかって できる はこの 形は どれでしょう。　6点

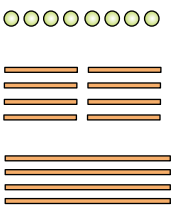

ねん土玉 8こ

3cmの ひご 8本

7cmの ひご 4本

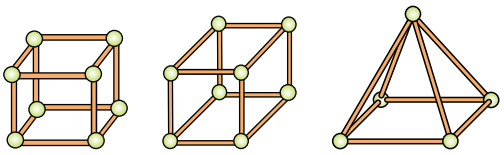

㋐　㋑　㋒

(㋑)

新興出版社啓林館 & ちびむすドリル special コラボ
ドリルの王様
楽しく取り組めるから 長続き する！
各種検定試験、また2020年度からの 新学習指導要領 にも対応！
ドリルの王様 or 教科書ぴったりテスト 検索
ドリルの王様 公式サイトは こちら
予習・復習に便利な 教科書ぴったりテスト 公式サイトはこちら

3-1 まとめのテスト

月　日　もくひょう時間 15 分

名前 こたえ　点

1 左の 時こくから 右の 時こくまでの 時間を 答えましょう。

10点(1つ5)

①

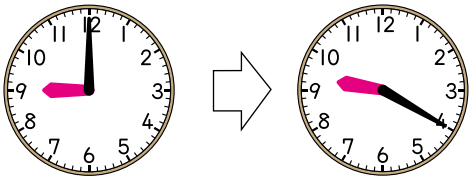

（20 分）

②

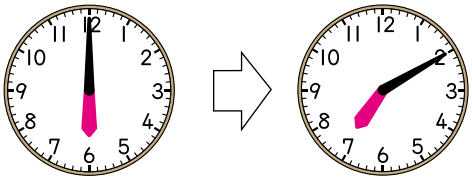

（1 時間 10 分）

2 つぎの 直線の 長さは 何 cm 何 mm でしょう。また，何 mm でしょう。

6点(1つ3)

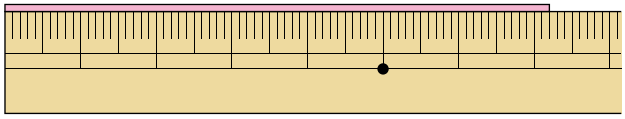

（7 cm 2 mm）

（72 mm）

3 つぎの □に あてはまる 数を かきましょう。 24点(1つ3)

① 1 m 40 cm＝140 cm

② 289 mm＝28 cm 9 mm

③ 126 cm＝1 m 26 cm

④ 1 L＝10 dL＝1000 mL

⑤ 2000 mL＝2 L

4 水の かさは 何 L 何 dL でしょう。

8点(1つ4)

①

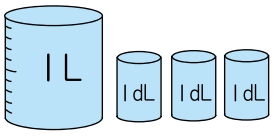

（1 L 3 dL）

②

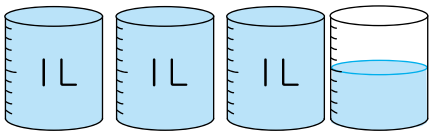

（3 L 5 dL）

新興出版社啓林館 & ちびむすドリル Special コラボ
ドリルの王様
楽しく取り組めるから 長続き する！
各種検定試験、また 2020年度からの 新学習指導要領 にも対応！
ドリルの王様 or 教科書ぴったりテスト 検索
ドリルの王様 公式サイトは こちら
予習・復習に便利な 教科書ぴったりテスト 公式サイトはこちら

3-2 まとめのテスト

なまえ　こたえ

5 どうぶつの　絵の　カードが　あります。　52点(1つ4)

① どの　カードが　何まい　あるか　しらべて，ひょうに　かきましょう。

カードの　しゅるいしらべ

どうぶつのしゅるい	パンダ	さる	うさぎ	ぞう
まい数（まい）	7	4	5	2

② ○を　つかって　グラフに　かきましょう。

カードの　しゅるいしらべ

○			
○			
○		○	
○	○	○	
○	○	○	
○	○	○	○
○	○	○	○
パンダ	さる	うさぎ	ぞう

③ まい数が　いちばん　多かったのは　何でしょう。

（　パンダ　）

④ まい数が　いちばん　少なかったのは　何でしょう。

（　ぞう　）

⑤ パンダは　うさぎより　何まい　多いでしょう。

（　2まい　）

⑥ さると　ぞうは，どちらが　何まい　多いでしょう。

（　さる　）が（　2まい　）多い。

新興出版社啓林館 & ちびむすドリル Special コラボ
ドリルの王様
楽しく取り組めるから 長続き する！
各種検定試験、また2020年度からの 新学習指導要領 にも対応！
ドリルの王様 or 教科書ぴったりテスト 検索
ドリルの王様 公式サイトは こちら
予習・復習に便利な 教科書ぴったりテスト 公式サイトはこちら

4-1 しあげのテスト

月　日　もくひょう時間 15分

名前 こたえ　点

1 □に　あてはまる　数を　かきましょう。　20点(1つ4)

① 10を　68こ　あつめた　数は　**680**　です。

② 980は　10を　**98**　こ　あつめた　数です。

③ 7800は　100を　**78**　こ　あつめた　数です。

④

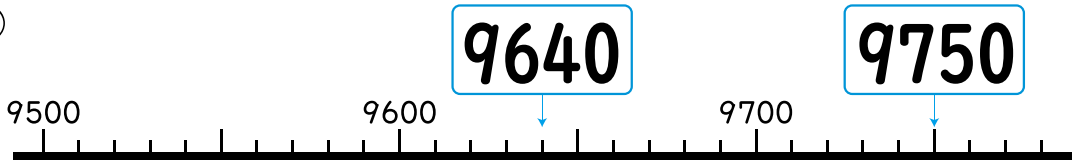

2 大きい　数から　じゅんに　かきましょう。　5点

8970　8790　8097　9078　8907

（ **9078　8970　8907　8790　8097** ）

3 色を　ぬった　ところの　長さが　もとの　長さの　$\frac{1}{4}$　に　なって　いるのは　どれでしょう。　5点

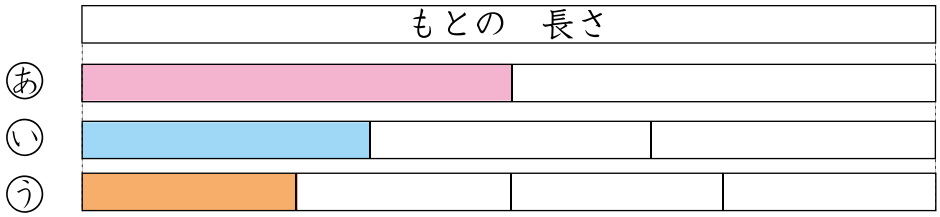

（ う ）

4 つぎの　時こくを　「午前」か　「午後」を　つけて　答えましょう。　10点(1つ5)

（午前）

50分　前の　時こく

（ **午前 10** ）時（ **45** ）分

新興出版社啓林館 & ちびむすドリル Special コラボ
ドリルの王様
楽しく取り組めるから 長続き する！
各種検定試験、また2020年度からの 新学習指導要領 にも対応！
ドリルの王様 or 教科書ぴったりテスト 検索
ドリルの王様 公式サイトは こちら
予習・復習に便利な 教科書ぴったりテスト 公式サイトはこちら

4-2 しあげのテスト

なまえ　こたえ

5 つぎの　計算を　しましょう。　20点(1つ5)

① 8cm9mm－6cm ＝ 2cm9mm

② 1m30cm＋20cm ＝ 1m50cm

③ 2L5dL＋7dL ＝2L12dL＝3L2dL

④ 1L3dL－8dL ＝13dL－8dL＝5dL

6 水の　かさは　何L何dLでしょう。　10点(1つ5)

①

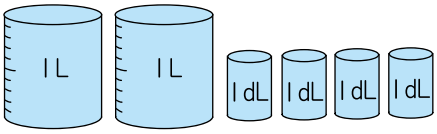

（ 2L4dL ）

②

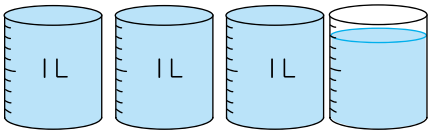

（ 3L8dL ）

7 長方形，正方形，直角三角形は　どれでしょう。　15点(1つ5)

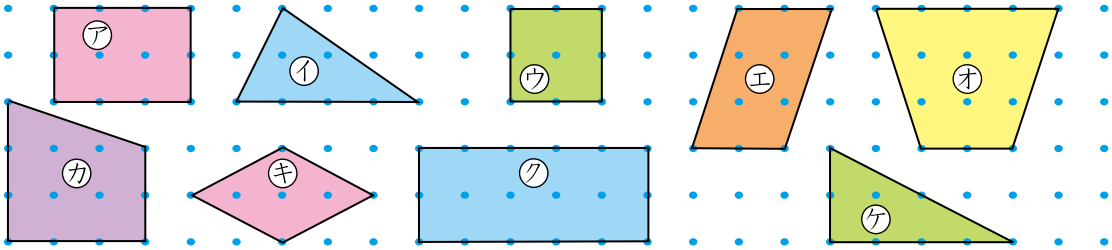

長方形（ア ク）　正方形（ ウ ）　直角三角形（ ケ ）

8 右の　はこの　形を　見て　答えましょう。　15点(1つ5)

① 面の　数は　いくつでしょう。　（ 6こ ）

② 辺の　数は　いくつでしょう。　（ 12本 ）

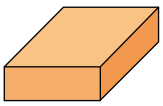

③ ちょう点の　数は　いくつでしょう。　（ 8こ ）

新興出版社啓林館 & ちびむすドリル Special コラボ
ドリルの王様
楽しく取り組めるから 長続き する！
各種検定試験、また2020年度からの 新学習指導要領 にも対応！
ドリルの王様 or 教科書ぴったりテスト 検索
ドリルの王様 公式サイトは こちら
予習・復習に便利な 教科書ぴったりテスト 公式サイトはこちら

ドリルの王様 大特集 得点表

2ねんの 数・りょう・図形

ドリルにチャレンジして、点数を記録しよう。
1回目で全問正解できなくても2回、3回と、
くり返しちょう戦しよう！
満点が取れたら、に色をぬってね。

めざせ満点!!

名前

	1回目	2回目	3回目
1-1 まとめの　テスト			
1-2 まとめの　テスト	点	点	点
2-1 まとめの　テスト			
2-2 まとめの　テスト	点	点	点
3-1 まとめの　テスト			
3-2 まとめの　テスト	点	点	点
4-1 しあげの　テスト			
4-2 しあげの　テスト	点	点	点

新興出版社啓林館 & ちびむすドリル Special コラボ
ドリルの王様
楽しく取り組めるから 長続き する！
各種検定試験、また2020年度からの 新学習指導要領 にも対応！

ドリルの王様 or 教科書ぴったりテスト 検索

ドリルの王様 公式サイトは こちら

予習・復習に便利な 教科書ぴったりテスト 公式サイトはこちら