4 三角形

月　日　時　分～　時　分

名前　こたえ　点

1 つぎの□にあてはまることばをかきましょう。　16点(1つ8)

① 2つの辺の長さが等しい三角形を **二等辺三角形** といいます。

② 3つの辺の長さがみんな等しい三角形を **正三角形** といいます。

①
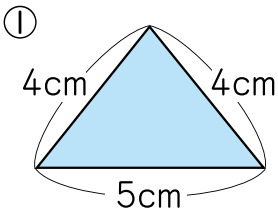

②
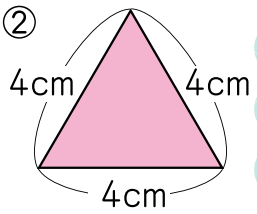

2 つぎの三角形が二等辺三角形か正三角形かを答えましょう。　28点(1つ7)

①
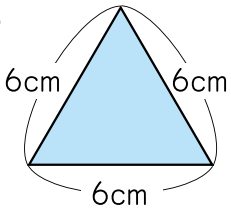

（正三角形）

②
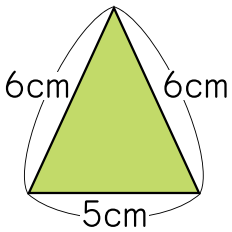

（二等辺三角形）

③
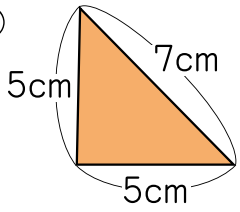

（二等辺三角形）

④
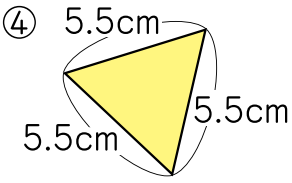

（正三角形）

3 つぎの三角形のうち，二等辺三角形と正三角形はどれでしょう。あ～かの記号で答えましょう。　16点(1つ8)

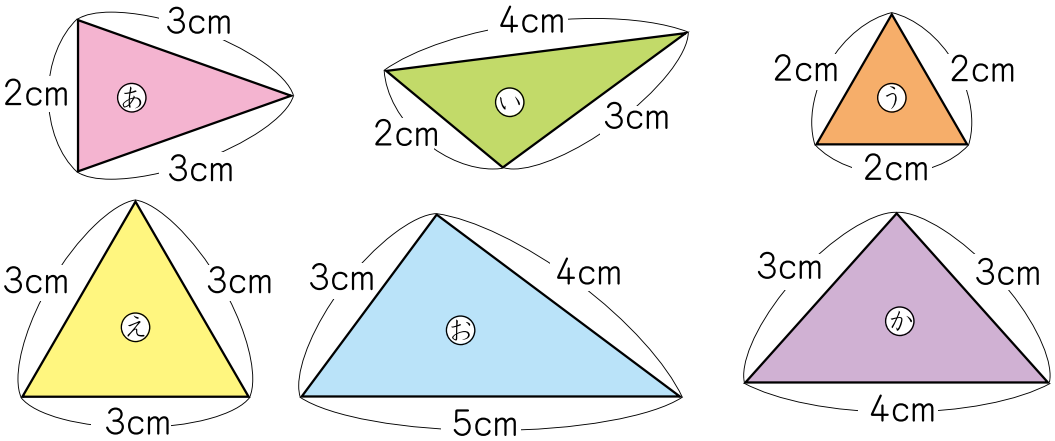

① 二等辺三角形（あ　か）

② 正三角形（う　え）

新興出版社啓林館 & ちびむすドリル special コラボ
ドリルの王様
楽しく取り組めるから 長続き する！
各種検定試験、また2020年度からの 新学習指導要領 にも対応！
ドリルの王様 or 教科書ぴったりテスト 検索
ドリルの王様 公式サイトは こちら
予習・復習に便利な 教科書ぴったりテスト 公式サイトはこちら