1 小数のいみ

月　日　時　分～　時　分

名前 こたえ　点

1 つぎのかさを小数で表しましょう。　44点(1つ4)

①

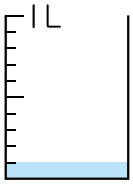

（0.1L）

1Lを10等分した1こ分のかさを，0.1L(れい点一リットル)というよ。

小数

0	.	1
一の位	小数点	小数第一位

②

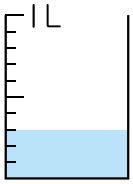

（0.3L）

③

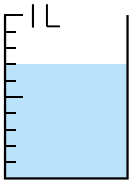

（0.7L）

④

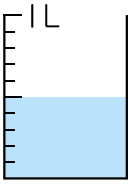

（0.5L）

⑤

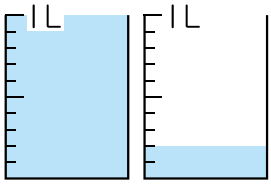

（1.2L）

⑥

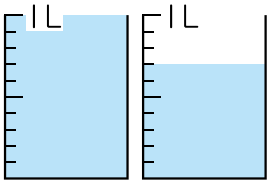

（1.7L）

⑦

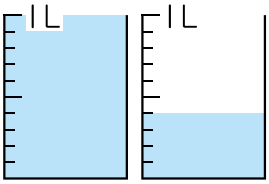

（1.4L）

⑧

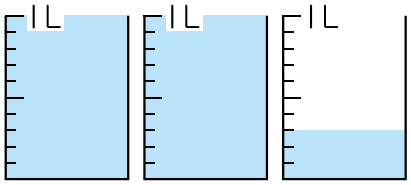

（2.3L）

⑨

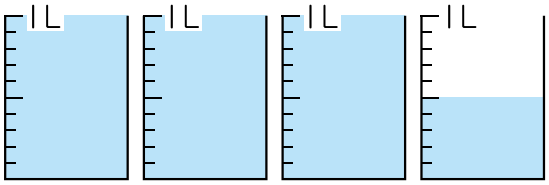

（3.5L）

⑩

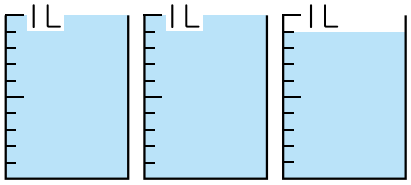

（2.9L）

⑪

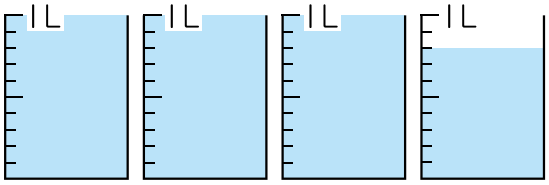

（3.8L）

新興出版社啓林館 & ちびむすドリル special コラボ
ドリルの王様
楽しく取り組めるから 長続き する！
各種検定試験、また2020年度からの 新学習指導要領 にも対応！
ドリルの王様 or 教科書ぴったりテスト 検索
ドリルの王様 公式サイトは こちら
予習・復習に便利な 教科書ぴったりテスト 公式サイトはこちら

2 分数のいみ

月　日　時　分～　時　分

名前　こたえ　点

1 ■や□の部分の大きさを分数で表しましょう。　39点(1つ3)

分数

$\frac{1}{2}$…分子（ぶんし）／分母（ぶんぼ）

1mを2等分（とうぶん）した1こ分の長さを，1mの2分（ぶん）の1といい，$\frac{1}{2}$m(2分の1メートル)とかくんだよ。

① 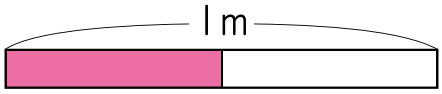

（$\frac{1}{2}$m）

② 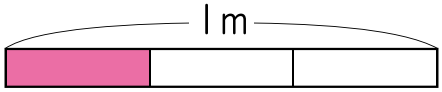

（$\frac{1}{3}$m）

③ 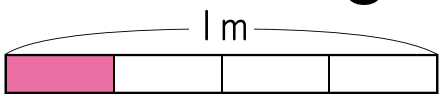

（$\frac{1}{4}$m）

④ 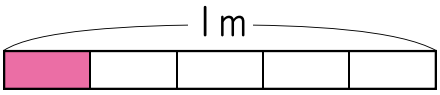

（$\frac{1}{5}$m）

⑤ 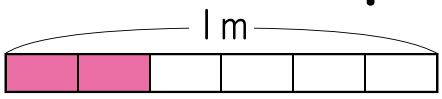

$\frac{1}{6}$mの2こ分
（$\frac{2}{6}$m）

⑥ 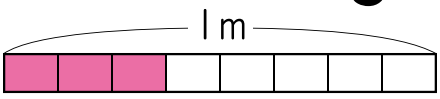

（$\frac{3}{8}$m）

⑦ 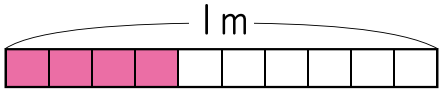

（$\frac{4}{10}$m）

⑧ 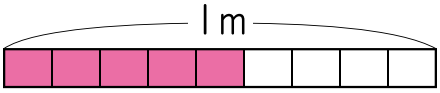

（$\frac{5}{9}$m）

⑨ 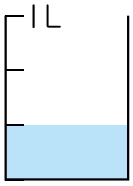

（$\frac{1}{3}$L）

⑩ 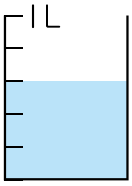

（$\frac{3}{5}$L）

⑪ 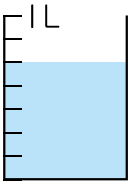

（$\frac{5}{7}$L）

⑫ 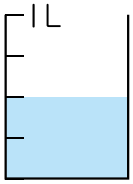

（$\frac{2}{4}$L）

⑬ 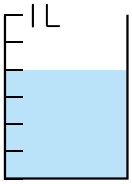

（$\frac{4}{6}$L）

新興出版社啓林館 & ちびむすドリル special コラボ
ドリルの王様
楽しく取り組めるから 長続き する！
各種検定試験、また2020年度からの 新学習指導要領 にも対応！
ドリルの王様 or 教科書ぴったりテスト 検索
ドリルの王様 公式サイトは こちら
予習・復習に便利な 教科書ぴったりテスト 公式サイトはこちら

3 分数と小数

月　日　時　分～　時　分

名前　こたえ　点

1 下の数直線を見て答えましょう。　28点(1つ4)

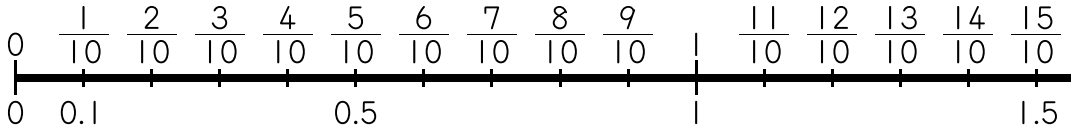

① $\frac{1}{10}$ は，1を何等分した1こ分でしょう。　（10等分）

$0.1 = \frac{1}{10}$

② 0.1 は，1を何等分した1こ分でしょう。　（10等分）

③ $\frac{1}{10}$ を小数で表しましょう。　（0.1）

④ $\frac{4}{10}$ を小数で表しましょう。　（0.4）

⑤ 0.3 を分数で表しましょう。　（$\frac{3}{10}$）

⑥ 0.3 の $\frac{1}{10}$ の位の数字をかきましょう。　（3）

0	.	3
一の位		$\frac{1}{10}$の位

小数第1位のことを $\frac{1}{10}$ の位ともいうんだよ。

⑦ 1.2 の $\frac{1}{10}$ の位の数字をかきましょう。　（2）

2 水 0.6 L を，分数を使って，L のたんいで表します。□にあてはまる数をかきましょう。　12点(1つ3)

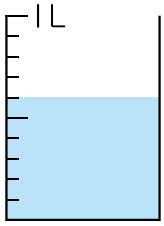

① 0.1 L は，1 L を [10] 等分した1こ分で，分数で表すと [$\frac{1}{10}$] L です。

② 0.6 L は，0.1 L の [6] こ分だから，分数で表すと，[$\frac{6}{10}$] L です。

新興出版社啓林館 & ちびむすドリル special コラボ
ドリルの王様
楽しく取り組めるから 長続き する！
各種検定試験、また 2020年度からの 新学習指導要領 にも対応！
ドリルの王様 or 教科書ぴったりテスト 検索
ドリルの王様 公式サイトは こちら
予習・復習に便利な 教科書ぴったりテスト 公式サイトはこちら

4 三角形

月　日　時　分～　時　分

名前　こたえ　点

1 つぎの□にあてはまることばをかきましょう。　16点(1つ8)

① 2つの辺の長さが等しい三角形を **二等辺三角形** といいます。

② 3つの辺の長さがみんな等しい三角形を **正三角形** といいます。

①
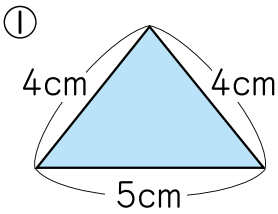

②
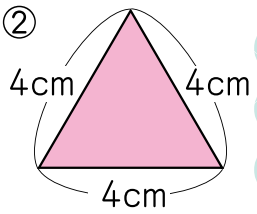

2 つぎの三角形が二等辺三角形か正三角形かを答えましょう。　28点(1つ7)

①
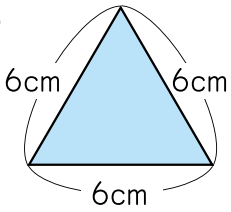

（正三角形）

②
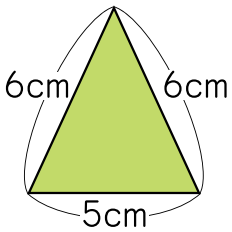

（二等辺三角形）

③
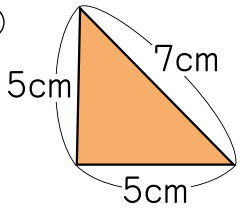

（二等辺三角形）

④
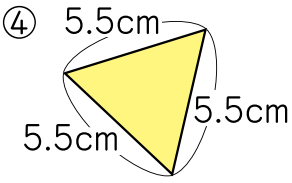

（正三角形）

3 つぎの三角形のうち，二等辺三角形と正三角形はどれでしょう。あ～かの記号で答えましょう。　16点(1つ8)

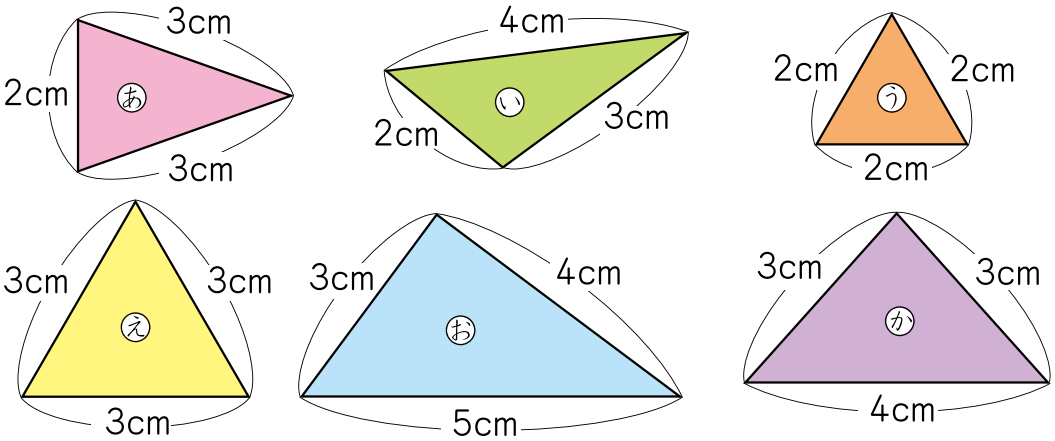

① 二等辺三角形（あ　か）

② 正三角形（う　え）

新興出版社啓林館 & ちびむすドリル special コラボ
ドリルの王様
楽しく取り組めるから 長続き する！
各種検定試験、また2020年度からの 新学習指導要領 にも対応！
ドリルの王様 or 教科書ぴったりテスト 検索
ドリルの王様 公式サイトは こちら
予習・復習に便利な 教科書ぴったりテスト 公式サイトはこちら

5 角とその大きさ

月　日　時　分～　時　分

名前 こたえ　点

1 つぎの□にあてはまることばをかきましょう。　10点(1つ5)

1つのちょう点から出ている2つの

① 辺（へん） がつくる形を角（かく）といいます。

角の大きい小さいは，角をつくる2つの辺のひらきぐあいでくらべます。

右の㋐の角は，㋑の角より，② 小さい 。

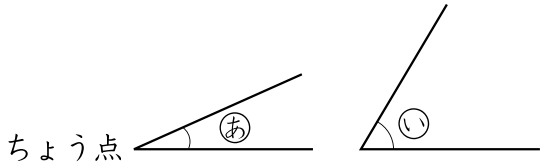

2 大きいほうの角を答えましょう。　48点(1つ6)

①
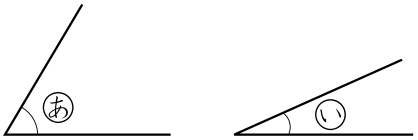

（　あ　）

②
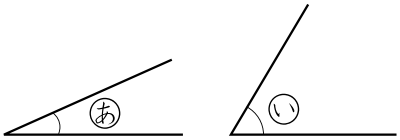

（　い　）

③
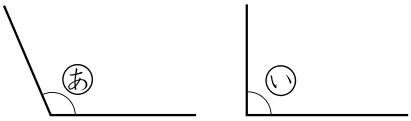

（　あ　）

④

（　い　）

⑤
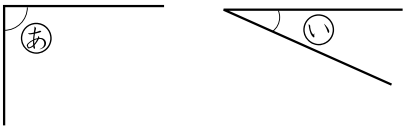

（　あ　）

⑥
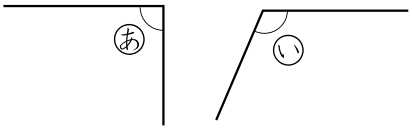

（　い　）

⑦
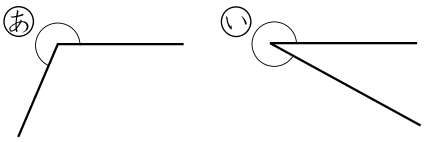

（　い　）

⑧
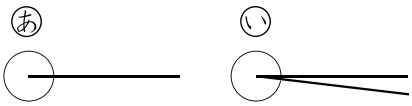

（　あ　）

新興出版社啓林館 & ちびむすドリル special コラボ
ドリルの王様
楽しく取り組めるから 長続き する！
各種検定試験、また2020年度からの 新学習指導要領 にも対応！
ドリルの王様 or 教科書ぴったりテスト 検索
ドリルの王様 公式サイトは こちら
予習・復習に便利な 教科書ぴったりテスト 公式サイトはこちら

6 長い長さ

月　日　時　分～　時　分

名前 こたえ　点

1 まきじゃくの↓の目もりをよみましょう。　30点(1つ3)

①

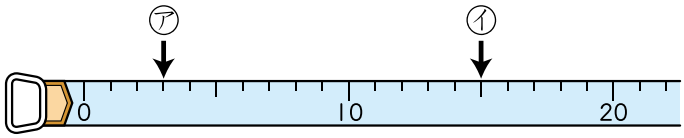

㋐（ 3 cm）　㋑（ 15 cm）

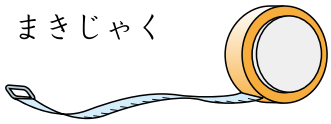

長いものをはかるときには，まきじゃくを使うとべんりだよ。

②

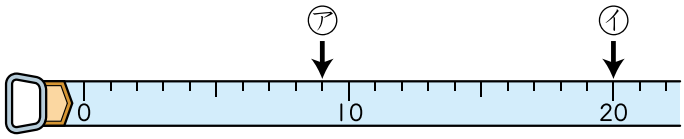

㋐（ 9 cm）　㋑（ 20 cm）

まきじゃくを使うときは，0の目もりのいちにちゅういしようね。

③

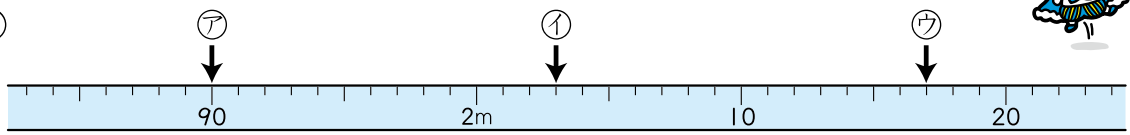

㋐（ 1 m 90 cm）　㋑（ 2 m 3 cm）　㋒（ 2 m 17 cm）

④

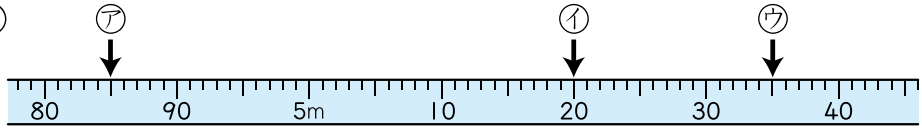

㋐（ 4 m 85 cm）　㋑（ 5 m 20 cm）　㋒（ 5 m 35 cm）

2 つぎの□にあてはまることばや数をかきましょう。　4点(1つ2)

① 道にそってはかった長さを［道のり］といいます。

② 長い長さを表（あらわ）す長さのたんいにkmがあります。
└→キロメートルとよみます。

1 km＝［1000］m です。

新興出版社啓林館 & ちびむすドリル Special コラボ
ドリルの王様
楽しく取り組めるから 長続き する！
各種検定試験、また2020年度からの 新学習指導要領 にも対応！
ドリルの王様 or 教科書ぴったりテスト 検索
ドリルの王様 公式サイトは こちら
予習・復習に便利な 教科書ぴったりテスト 公式サイトはこちら

7 いろいろなはかり

月　日　時　分～　時　分

名前　こたえ　点

1 つぎの目もりをよみましょう。

40点(1つ8)

①



(245 g)

②

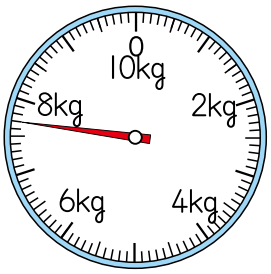

(7kg700g)

③

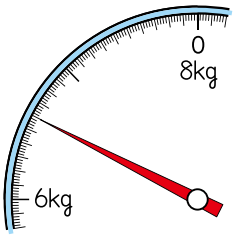

(6kg600g)

④

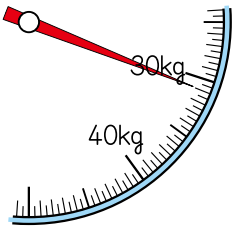

(31kg)

⑤

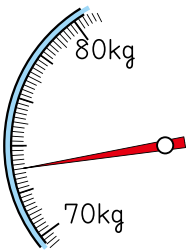

(73kg)

2 つぎの目もりをよみましょう。

12点(1つ4)

①

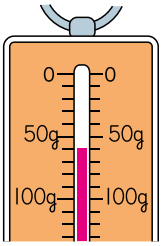

(60g)

②

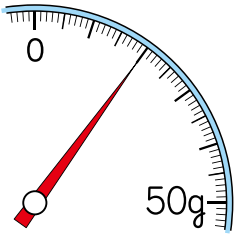

(20g)

③

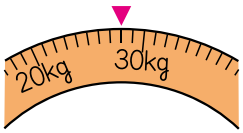

体重計(たいじゅうけい)

(28kg)

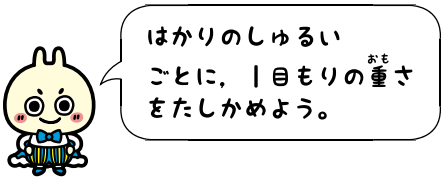

新興出版社啓林館 & ちびむすドリル special コラボ

ドリルの王様

楽しく取り組めるから 長続き する！

各種検定試験、また2020年度からの 新学習指導要領 にも対応！

ドリルの王様 or 教科書ぴったりテスト 検索

ドリルの王様 公式サイトは こちら

予習・復習に便利な 教科書ぴったりテスト 公式サイトはこちら

8 たんいのかん係

月　日　時　分～　時　分

名前　こたえ　点

1 つぎのりょうを表すのに使うたんいをかきましょう。　10点(1つ2)

① 人の体重　(kg)

② バケツに入る水のかさ　(L)

③ マンションの高さ　(m)

④ はさみの重さ　(g)

⑤ マラソンコースの道のり　(km)

2 今までに学習したたんいについて，□にあてはまるたんいをかきましょう。　6点(1つ2)

長さ	mm，① cm，m，km
かさ	mL，② dL，L
重さ	③ g，kg，t

どんなたんいがあったかな？

3 つぎの□にあてはまる数をかきましょう。　16点(1つ4)

① 1 km＝ 1000 m

② 1000mm＝ 1 m

③ 1 L＝ 1000 mL

④ 1 kg＝ 1000 g

k(キロ)は1000倍を表すよ。
1 kgは1000 gだね。

新興出版社啓林館 & ちびむすドリル special コラボ
ドリルの王様
楽しく取り組めるから 長続き する！
各種検定試験、また2020年度からの 新学習指導要領 にも対応！
ドリルの王様 or 教科書ぴったりテスト 検索
ドリルの王様 公式サイトは こちら
予習・復習に便利な 教科書ぴったりテスト 公式サイトはこちら

ドリルの王様 大特集 得点表

3ねんの 数・りょう・図形

ドリルにチャレンジして、点数を記録しよう。
1回目で全問正解できなくても2回、3回と、
くり返しちょう戦しよう！
満点が取れたら、に色をぬってね。

名前

めざせ満点!!

	1回目	2回目	3回目
1 小数のいみ	点	点	点
2 分数のいみ	点	点	点
3 分数と小数	点	点	点
4 三角形	点	点	点
5 角とその大きさ	点	点	点
6 長い長さ	点	点	点
7 いろいろなはかり	点	点	点
8 たんいのかん係	点	点	点

新興出版社啓林館 & ちびむすドリル Special コラボ
ドリルの王様
楽しく取り組めるから 長続き する！
各種検定試験、また2020年度からの 新学習指導要領 にも対応！

ドリルの王様 or 教科書ぴったりテスト 検索

ドリルの王様 公式サイトは こちら

予習・復習に便利な 教科書ぴったりテスト 公式サイトはこちら