1 何分をもとめる

月　日　時　分～　時　分

名前 こたえ　点

1 左の時こくから右の時こくまでの時間は何分ですか。
□にあてはまる数をかきましょう。　30点(□1つ10)

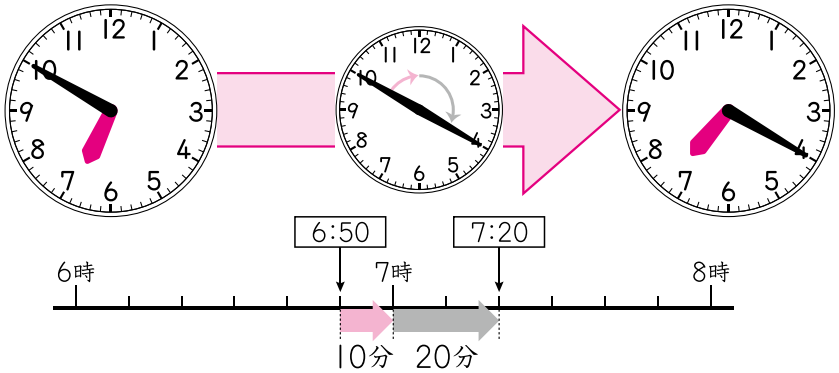

7時までの時間と
7時からの時間に
分けて考えるといいよ。

6時50分から7時までは **10** 分，7時から7時20分までは **20** 分。

あわせて **30** 分です。

2 左の時こくから右の時こくまでの時間は何分ですか。　20点(1つ10)

①

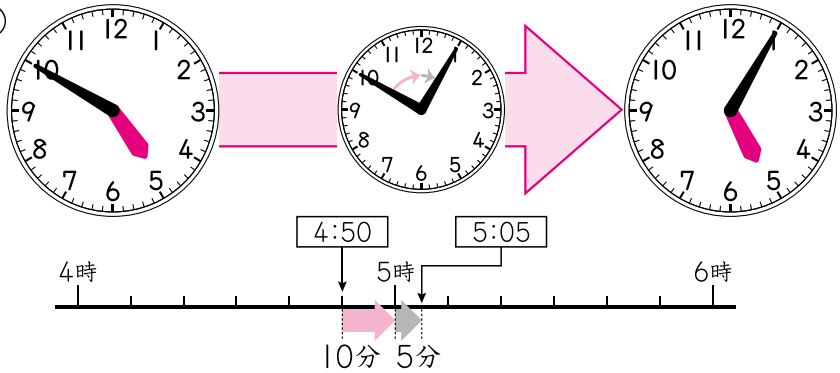

（15分（15分間））

②

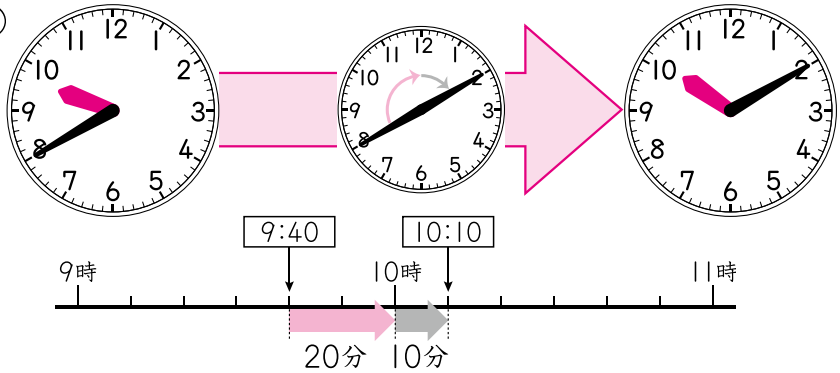

（30分（30分間））

新興出版社啓林館 & ちびむすドリル special コラボ
ドリルの王様
楽しく取り組めるから 長続き する！
各種検定試験、また2020年度からの 新学習指導要領 にも対応！
ドリルの王様 or 教科書ぴったりテスト 検索
ドリルの王様 公式サイトは こちら
予習・復習に便利な 教科書ぴったりテスト 公式サイトはこちら